ج برخه: د مالدارۍ د صنعت برخي

دوېم لوست: د پسونو او اوزو دصنعت ازمايښت

د زده کونکو دزده کړې موخي: په دې لوست کې زده کونکي باید لاندې موخي ترلاسه کړي.

1) د پسونو او اوزو د تولید د اصطلاحاتو په هکله بحث وکړي.

2) د پسونو او اوزو باندني غړي تشریح او پرتله کړي.

3) د پسونو او اوزو معمولي نسلونه تشخیص کړي.

4) د پسونو او اوزو د تولېد لاري روښانه کړي؟

د لوست لپاره سپارښت شوی وخت: (۳) ګړۍ

د دې لوست په تدریس کولو کې لاندې منابع ګټوري تمامیدی شي:

Ensminger, M.E, The Stockman's Hand book.

Danville, Illinois, interstate publishers, Inc. 1992

Cooper, Elmer L., Burton, DeVere L., ***Agriscience fundamentals and applications***. Albany, New York: Delmar. 2002(Textbook Unit 30)

Internet keywords: goat, sheep, lambing, wool, flock

د لوازمو، وسیلو او برابرونکو اسانتیاوو لست

- د لیکنې لپاره سپینه یا توره تخته(لېک دړه)
- پاورپواینټ او پروجکتور یا غټ ښودونکی
- د پاورپواینټ سلایدونه یا صفحي
- د پروجکتور لپاره روښانه کاغذ(ترانس پرنتس)
- دزده کونکو لپاره د لابراتوارکاغذ

اصطلاحات

په دې لوست کې لاندې اصطلاحات وړاندې کيږي.(په غټو تورو باندې په نښه شوي دي):

د پاورپواينټ ۲ سلايد.

پسه(Buck)

کشميرۍ اوزه(cashmere)

د پسه څرمنه(Chummy)

طوېله(Confinement)

اوزه (Doe)

مېږه(Ewe)

ورغمی (kid)

وړی (wool)

يو کلن(yearling)

د ورغمی دتوليد مرحله(Kidding)

ورغمی(lamb)

د ورغمی د توليد مرحله(Lambing)

قېمتي وړی (Mohair)

د پسه غوښه(Mutton)

مږ(Ram)قوچ

خصی شوی پسه (Wether)

پاورپواینټ ۲ سلاید

دلوست لپاره په زړه پوري مهارت: د زده کونکو د ښه تدريس لپاره يوه ښه تګ لاره غوره کړئ ترڅو زده کونکي د زده کړې لپاره تيار شي.

ښوونکي د ځانګړو ټولګيو لپاره د زده کونکو د پوهې په اساس د لوست تګ لاره جوړوي، دا ممکنه لاري کيداي شي په لاندې ډول سره وي:

له زده کونکو غوښتنه وکړئ چې د پسونو او اوزو ممکنه توليېدات کوم دي؟هغوي دي بيلګي په تخته وليکي، زده کونکو ته وواياست چې د اصطلاحاتو لکه شيېدو، وړی، څرمني، غوښي، جامو او نورو څخه ګټه واخلي. وروسته له زده کونکو پوښتنه وشي چې په خپلو کورونو کې له کوم يو څخه ګټه اخلي.

د درس ورکول ستراتيژي او د محتوياتو لنډيز

۱ موخه: په خپل منځ د هغه اصطلاحاتو په هکله بحث وکړئ چې د پسونوا اوزو پوري اړه لري.

اټکل شوې ستونزه: ځنې ځانګړي اصطلاحات چې د پسونو او اوز د حاصلاتو د روښانه کولو لپاره استعماليږي کوم دي؟

کله چې زده کونکي ټولګی ته داخليږي، بايد چې هر يو له هغوي څخه دا اصطلاحات په يو کاغذ کې ليکلي وي او د ټولګی په دننه يې ځای په ځای کړي. له دې وروسته خپلو ځايونو ته لاړ شي او وروسته د دې اصطلاحاتو په باره کې بحث وشي او تعريف شي.

هغه اصطلاحات چې دپسونو او اوزو د توليېداتو د روښانه کولو لپاره استعماليږي کوم دي؟

1. لاندې اصطلاحات دپسونو او اوزو د حاصلاتو د روښانه کولو(تشخيص) لپاره په کار وړل کيږي:

A. **Doe** : د ښځينه اوزې څخه عبارت ده په هر عمر کې چې وي.

B. **Buck:** د اوزو نارينه جنس چې په هر عمر کې وي.

C. **Kid:** د اوز هر يو جنس چې عمر يې له يو کال څخه لږ وي.

D. **Yearling:** هغه اوزه چې عمر يې له يو کال څخه لوړ وي.

E. **Wether**: ځوان خصي شوي سيرلی او پسه چې په ځوانی کې خصی شوې وي.

F. **Ram**: نارينه پسه د کوم څخه چې په نسل اخستنه کې ګټه اخستل کيږي.

G. **Ewe**: هغه اصطلاح چې د ښځينه پسونو لپاره کارول کيږي.

H. **Kidding**: د اوزو د بچيو دتوليد د پروسي څخه عبارت ده.

I. **Lambing**: د ورغمو دتوليږد مرحلي نه عبارت ده.

J. **Lamb**: ديو کلن ورغمي نه عبارت دی او همدارنګه د ځوان پسه د غوښي لپاره دا اصطلاح کارول کيږي.

K. **Mutton**: د پسه د غوښي نه عبارت ده د کوم عمر چې له يو کال څخه لوړ وي.

L. **Chammy**: هغه څرمنه چې داوزو او پسونو څخه په لاس راځي.

M. **Wool**: د پسه د پوښ نه عبارت دی چې له ريښو څخه يې د جامو په توليږد کې ګټه اخستل کيږي.

د پاور پواينټ 3,4,5,6 او TM :1-2 استعمال مرسته کوي (د دې اصطلاحاتو د يادول په خاطر). همدارنګه زده کونکي دې د هرې اصطلاح په خاطر د ښودونو(نمايشونو) کارتونه جوړکړي، ددې کار لپاره دې يوه ورقه کاغذ د ٤ مربع ګانو د څنډو په ډول غوځ کړي.وروسته دې زده کونکي د مربع په يو مخ اصطلاح وليږکي او په بل مخې دې ورته دهمدې اصطلاح تعريف وليکي.

۲ موخه: د پسه او اوزې باندني غړي روښانه او پرتله کړئ.

اټکل شوي ستونزې: هغه توپيرونه چې د اوزو او پسونو ترمنځ شتون لري کوم دي؟

زده کونکي دې د ټولو هغه ورتوالو لست جوړ کړي چې د اوزو او پسونو ترمنځ شتون لري. وروسته دې د هغوي د توپيرونو لست وليکي. ودې وايې چې د کومو جوړول نسبتاً اسان کار دی.

II. د پسونو او اوزو ترمنځ په زياته پيمانه ورتوالي او توپيرونه شتون لري. دواړه د غولانځی لرونکي دي. د شخوند وهلو هضمي سيستم(پيچلی) لرونکي دي او سمان يې دوه پلئي دي يعني سم يې په دوه برابرو برخو ويشل شوي وي.دواړه اقتصادي ارزښت لري. ولې پسونه معمولاً د زيات اقتصادي ارزښت لرونکي دي. **دپاور پواينټ ۷-۸ سلايدونه**.

A. پسونه د خوراکی او جامو په خاطر روزل کيږي.پسونه په هغه ځايونو کې روزل کيږي په کوم کې نورڅاروي د اقليم د ناکواره شرايطو په اساس نه شي پالل کيدلی. پسه نسبت اوزې او نورو څارويو ته غذايي مواد په اسانی سره په غوښي بدلوي. پسونه د څړ لپاره د نباتاتو پلنو پاڼو او دګراس کورنۍ ګیاوو ته ترجيح ورکوي.د نورو څارويو سره د پرتلې په توګه لکه غوښيني غواوي، پسونه د خوراکي د ټاکنې لړ چانس لري. په نورو هېوادونو کې د پسونو د حاصلاتو مصرف لوړدی. د پسونو غوره توليږد کونکي نيوزلنډ او استراليا دي. له همدې امله په دې دوه هېوادونو کې د پسونو توليدداتو ته د خلکو غوښتنه زياته ده او همدارنګه د پسونو د روزنې لپاره شرايط برابر دي. دپسونو وزن د ۴۵-۱۰۲ کېلو ګرامو ترمنځ او عمر يې د ۷-۱۳ کالو په منځ کې قرار لري. د پسونو زيات نسلون شتون لري کوم چې دغوښې، وړيو او يا دواړو د توليږد په خاطر کارول کيږي.

B. اوزې د خوراکي او جامو د توليږد لپاره روزل کيږي. د اوزو څخه ګټه اخستنې د مېلاد څخه ۳۰۰۰-۷۰۰۰ کاله مخکې شتون درلود. د انګورا اوز څخه قيمتي وړۍ لاس ته

راځي کومې چې د وړینو توکو د جوړولو لپاره په کار وړل کیږي.څرنګه چې اوزې د اونو کوچنیو ښمبو او پانو ته د خوراک لپاره ترجیح ورکوي پس د غواو او پسونو د خوراکي له نظره دخوراکي د اړتیا رقابت کم دی.په همدې اساس د پسونو سره یوځای څرول کیږي. دا واړه څاروي دي چې په اسانۍ سره اداره کیږي. د بلوغیت په مهال یې ژوندی وزن ٦٨ کېلو ګرامه او لوړوالی یې ٤٠-١٢٢ سانتي متره وي. عمر یې د ٨-١٠ کالو ترمنځ قرار لري. **د پاورپواینټ ۹ سلاید.**

C. پسونه او اوزې زیاتې باندنۍ برخې لري.چې دهغوي د بحث په برخه یا د یادولو په خاطر اړین بریښي. **پاورپواینټ ۱۰-۱۱ سلایدونه.**

د TM استعمال: 2-2. د پاورپواینټ ۱۰-۱۱ نمبر سلایدونه د پسونو او اوزو زیاتې باندۍ برخې مشخصې کوي.

۳موخه: د پسونو او اوزو معمولي نسلونه تشخیص کړئ.

اټکل شوي ستونزي: د پسونواو اوزو معمولي نسلونه کوم دي؟

III. په نړۍ کې د ۲۰۰ نه زیات د پسونواو له ۳۰۰ نه زیات داوزو نسلونه شتون لري. دپسونو او اوزو ځانګړي نسلونه د مشخصو موخو او اړتیا مطابق ټاکل کیږي. ټول څاروي باید د مشهور او پوه تولید کونکو څخه وپیرل شي ترڅو د ناروغیو څخه پاک وي.په ټوله نړۍ کې د پسونو او اوزو لاندې بیلګې نسبتاً په رواجي توګه تر استفادې لاندې نیول کیږي . **پاورپواینټ ۱۲ نمبر سلاید.**

A. سفولک د نړۍ یو له مهمو نسلونو څخه شمیرل کیږي. د پسونو دا نسلونه دمنځني حد وړیو تولیدونکو له جملې څخه دي. پلرني ټاټوبی یې انګلستان دی. لویه جوسه لري، د سر، پښو او غوږونو رنګ یې تور دی. دا نسل بې ښکرو دی او د وړیو کلنی تولېد یې د ۳،٦-

۵،٤ کيلو ګرامو ترمنځ دی. د توالد سلنه يې ۱۵۰ فيصده ده .(د دوه ګونی توالد په زړه پوري قدرت لري). د سفوليک پسونو خاوندان د ورغمو د توليدونکو معمولي توليد کونکي دي. **پاور پواينټ ۱۳ سلايد.**

B. د ډوريسټ پسه اصلي ټاټوبی انګلستان دی.دا نسل په ۱۸۸۷ کال کې تثبيت شوی دی. دا پسونه د منځني حد وړيو توليدونکو، ښکرلرونکو او يابي ښکرو او رنګ يې په پوره توګه سپين وي.جوسه يې منځني حد لري او دوړيو کلنی توليد يې ۳-۳،٦ کيلو ګرامه وي.د دې نسل ميږې د نسل اخستنې په مهال د منی په موسم کې ورغمي توليدوي. د جسد دغوره عضلاتو او د شيدو د ښه توليد کونکو له جملې څخه دي.**پاور پواينټ ۱٤ سلايد.**

C. د قره قل پسونه د ځانګړ کيفيتونو لرونکي دي. تور جين يې غالب وي په همدې اساس په زياته فيصدئ سره يې بچې تور دنيا ته راځي. په اساسي توګه د صحرايي دښتي څاروي دي، د لم په شاوخوا کې غوړ ذخيره کوي او له هغې څخه د ډنګروالي پرمهال ګټه اخلي. د دوي پوستکی د زياتي پخوا زماني راهسي د ورغمي د پوستکی په نوم ياديږي. دا چې داپسونه د سختې جوسي لرونکي دي او د اقليمي شرايطو سره د توافق غوره قدرت لري. ځير پوستکی لري چې په هغې کې د حلقو نقشې طرح شوي. دا پسونه په چين کې د وړيو د تجارتي افسانو لپاره يو ښه قلم مواد دي. چې له هغې څخه د کرتيو، جاکټونو او خوليو جوړونکو برخو په توګه ګټه اخستل کيږي.په همدې دليل اکثره قره قل د سمور پوټکی په نوم ياديږي. **پاورپواينټ ۱۵ سلايد.**

D. افغانستان د ځانګړومرکزي اسيايي نسلونو له کور څخه عبارت دی چې په ځانګړي توګه د هغې له محلي اقليم سره يې توافق کړی دی او د تجارتي نظره د اهميت وړ دی. د يادونې وړه ده چې زيات نسلونه له دوي څخه د ګرد لم لرونکي دي. ترکی پسونه په خپله شاه کې

د اوښ په شان دوه ځانګړي غوړين کوهانونه لري. په چټکی سره نمو کوي او د ښې غوښي توليږد کونکي دي. د وړيو ښه توليږد کونکي نه دي. د افغانستان په شمالي برخو کې روزل کيږي. دا پسونه د مهاجرو په واسطه پاکستان ته وړل شوي دي چې په هغه ځای کې د افغاني پسونو په نوم ياديږي. **پاورپواينټ ۱۶ سلايد.**

E. د انګورا اوزو اصلي ټاټوبی ترکيه ده او د هغه ساحو سره ښه توافق لري د کومو سره چې نور څاروي ښه توافق نه لري. د انګورا اوزي د بلوغ پرمهال سپين رنګ لري او دقيمتي وړيو کلنی توليږد يې ۳ کيلو ګرامه دی. دا څاروی ښکر لرونکی ، اوږده او ځوړند غوږونه لري.د دوي د قيمتي وړيو وزن د ۵۷-۷۹ کيلو ګرامو پوري رسيږي. ښځينه جسن يې د ۳۶-۴۱ کيلو ګرامو پوري وزن لري.**پاورپواينټ ۱۷ سلايد.**

F. دشيدو ورکونکو د شيدو وزن يې هره ورځ ۲،۳ کيلو ګرامه دی. د نری د شيدو ۱،۸ فيصده شيدي تشکيلوي. شيدي نسبت شيدي ورکونکو غواو ته زيات معدني مواد لري. د ماشومانو او کم عمر لرونکو پواسطه په اسانی سره هضميږي. **پاورپواينټ ۱۸ سلايد.**

G. غوښيني اوزي د هسپانوي اوزو په نوم ياديږي او د شيدو او غوښي د توليږد لپاره تري استفاده کيږي. د لرې پاملرنې لاندې ژوند کولی شي.همدارنګه د بټو او وښو پواسطه ژوندي پاتي کيږي. ځني يې د بوټو خوړونکو اوزو په نوم ياديږي. **پاورپواينټ ۱۹ سلايد.**

H. کشميری اوزي: دې اوزو د ټاکنو او نسل پواسطه انکشاف کړی دی. کشمير د قيمتي وړيو د لاندني پوښ څخه عبارت دی چې د اوزو پواسطه توليديږي. د کشميري قيمتي وړيو لپاره ډيره غوښتنه شتون لري ځکه چې کم توليديږي.هغه اوزي چې ټينګ رنګ لري د قيمتي وړيو د توليږد لپاره ورته ترجيح ورکول کيږي.همدارنګه هغه اوزي چې توپيري رنګونه ولري هم ددې موخې لپاره په کار وړل کيږي. **پاورپواينټ ۲۰ سلايد.**

I. لنډ قد لرونکي اوزي لومړی له افریقا څخه راوړل شوي دي. دا اوزي په خپلو اوږو کې د ۴۰-۵۰ سانتي مترو په اندازه لوړوالی لري او ښکر لرونکي دي. د دې اوزو څخه د کورنیو څارویو او تحقیقاتي څارویو په توګه ګټه اخستل کیږي. **پاورپواینټ ۲۱ سلاید.**

د اوزو د مختلفو نوعو د انځورونو د ښودلو په خاطر له TM:2-3 او پاورپواینټ سلایدونه استعمال کړی.

۴ موخه : د پسونو او اوزو د تولېد تګ لاري روښانه کړئ؟

اټکل شوي ستونزي: تاسې په څه ډول پسونه او اوزي تولېدوی؟

IV. د پسونو د تولېد پنځه سیستمونه شتون لري. **پاورپواینټ ۲۲ سلاید.**

A. د پسونو د تولېدي فارم د سیستم تګ لاره د هغه رمي څخه عبارت ده چي د یو څخه تر ۱۰۰۰ پوري پسونه ولري. د دې سیستم موخه د مارکیټ په خاطر ، د ورغمو تولېد او د وریو تولېدول دی.

B. د سوچه نسل رمي د هغه سیستم څخه عبارت دی چي د هغي په اساس د مېږو او مړانو په زړه پوري نوعي پلورل کیږي.ښه اداري ته اړتیا لري. د وراثت علم ته هم اړتیا لېدل کیږي. **پاورپواینټ ۲۳ سلاید.**

C. د څړکولو سیستم: په دې سیستم کي د لویو پسونو ګروپونه چي شمیر یي له ۱۰۰۰-۱۵۰۰ پسونو پوري وي شتون لري چي د یو پادوان پواسطه اداره کیږي. هغه پسونه چي غوښه تولېدوي د زیاتي ګیاه لرونکي څرځای نه استفاده کوي او هغه پسونه چي وړی تولیدوي د هغه څرځای نه استفاده کوي کوم چي لږه ګیاه لري.

D. یو شمیر تولید کونکي د پسونو د روزلو لپاره د طوېلئي سیستم څخه ګټه اخلي. په دې سیستم کې پسونه په کامله توګه په طوېله کې روزل کیږي. دا لاره مشهوره ده ځکه چي لږې

ځمکې ته اړتیا لري، د پرازیتونو ستونزه یې کمه وي، د پسونو پلټنې په اسانۍ سره صورت نیسي او په طویله کې د نورو څارویو روزلو موفقیت شتون لري. ځنې زیانونه یې عبارت دي له د تعمیر لوړ مصرف، د خوراکي لوړ مصرف او اداري ته زیاته اړتیا لري.

پاورپواینټ ۲٤سلاید.

E. د چاقېدونکو ورغمو تولېد په طویله یا هغه ځای کې چې ورغمي تغذیه کیږي د مور څخه د ورغمو جلا کول او په نورو روزونکو یې پلورل دي (ترهغه وخته چې د حلالي لپاره مناسب وزن واخلي). **پاورپواینټ ۲۵ سلاید.**

د پسونو د تولیدي سیستم نوعو ته د راجح مباحثې لپاره له TM: 2-4 او TM: 2-5 او همدارنګه د LS:2-1-2 څخه د ټولګی د لابراتوارپه توګه استفاده وکړئ.

بیالېدنه/لنډیز

د لوست د لنډیز لپاره د زده کونکو یادې کړي شوي موخي استعمال کړئ. زده کونکي باید هغه محتویات چې د هرې موخې پوري اړه لري روښانه کړي. زده کونکي باید په خپل منځ کې د پسونو اواوزو پوري تړلي اصطلاحاتو باندې بحث وکړي. وروسته د پسونو او اوزو باندني غړي روښانه او پرتله کړي. په پای کې د پسونو او اوزو تولېدي تګ لاري روښانه کړي.

اجراکونه: اجراکونه یې په لابراتوار کې د زده کونکو دبرخې اخستنې په اساس برابریږي.

ازمویل: ازمویل په هغه موخو متمرکز وي چې زده کونکي یې په هر لوست کې زده کوي. د دې موخې لپاره توپیري کړنلاري استعمالیږي د بیلګي په توګه په لابراتوار کې عملي کارونه کول چې په لېکلي بڼه ازموینه یې ضمیمه وي.

د ساده ازموینې لپاره ځوابونه:

لومړۍ برخه: اړیکه ورکول (Matching)

1 = g, 2 = a, 3 = f, 4 = e, 5 = b, 6 = d, 7 = c, 8 = h

دوېمه برخه: د جملو پوره کول

1. Wether – خصی شوی پسه
2. Ram: مړ
3. Ewe: مېږه
4. Kidding: د اوزو بچی تولېدونه
5. Lamb: ورغمی
6. Chammy: څرمنه

درېمه برخه: لنډ ځوابونه

د لاندې هر يوځواب لپاره سوال پيداکړئ؟

A. د وړيو نرخ تل په تغير کې وي، حتي که تاسي نن په ګټه کې ياست، ولي بله ورځ به ګټه ونه کړی، يا ددي معکوس، د وړيو تولېد او مصرف په دوامداره ډول په تغير کې وي.

نوم ___________________________ **ساده ازموينه ١-٢**

ټولګيوالو ازموينه

لومړی برخه: اړيکه ورکول(Matching)

روښانه کول: درست اصطلاحات دځوابونو سره ونښلوئ. د اصطلاحاتو مناسب توري د لېکل شوو شميرو په مقابل کې د ځوابونو په تشه کې وليکئ.

a. پسه

b. سيرلی

c. طوېله

d. اوزه

e. د ۱-۲ کالو ترمنځ عمر لرونکي اوزه

f. دپسه غوښه

g. وری

h. دورغمي د تولد مرحله

----- **۱-** د پسونو پوښ چې د رېښو په ډول د جامو د تولېد په خاطر استعمالیږي.

----- **۲-** نارینه اوزه چې په هر عمر کې وي.

----- **۳-** د هغه پسونو غوښه چې عمر یې د ۱-۲ کالو ترمنځ وي.

----- **٤-** د اوزو هر یرجنس چې عمر یې د ۱-۲ کلنو ترمنځ وي.

----- **٥-** د اوزو هر یو جنس چې عمر یې د یو کال څخه لږ وي.

----- **٦-** اوزه چې په هر عمر کې وي.

----- ۷- په طوېله کې د څارویو روزنه.

----- ۸- په پسونو کې دورغمو د تولد مرحله.

دوېمه برخه: د جملو پوره کول

روښانه کول: دلاندې جملو د بشپړکولو په خاطر لغت یا لغاتونه پیداکړئ:

1. __________ د ځوان نارینه خصی شوی سیرلی یا پسه نه عبارت دی.

2. __________ د پسه نه عبارت دی چې د نسل اخستني په خاطر استعمالیږي.

3. __________ هغه اصطلاح ده چې د ښځینه پسه لپاره استعمالیږي.

4. __________ د سیرلکو د تولد مرحله ده.

5. __________ هغه اصطلاح ده چې د یو کال نه لږ عمر لرونکو پسونو او غوښنینو
ځوانو پسونو لپاره استعمالیږي.

6. __________ هغه څرمنه ده چې د پسه او اوزي نه په لاس راځي.

درېمه برخه: لنډ ځوابونه

لاندې سوالونوته ځوابونه برابر کړئ.

پنځه فکتورونه چې د مطلوبو او نامطلوبو پسونو دتولیږد لپاره شتون لري روښانه کړئ.

دپسونو او اوزو اصطلاحات

- **Doe** د اوزي نه عبارت ده چې په هرعمر کې وي.
- **Buck** د نارینه اوزي نه عبارت دی چې په هر عمر کې وي.
- **Kid** د دواړو جنسونو له بچیو نه عبارت دی چې عمر یې له یو کال څخه لږ وي.
- **Yearling** د دواړو جنسونو د بچیو نه عبارت دي چې عمر یې د ۱-۲ کلونو ترمنځ وي.
- **Wether** نارینه پسه او اوزي نه عبارت دی چې په ځوانی کې خصی شوي وي.
- **Ram** دنارینه پسه نه عبارت دی چې د نسل اخستنې په موخه استعمالیږي.
- **Ewe** هغه اصطلاح ده چې د ښځینه پسه په خاطر استعمالیږي.
- **Lambing** د ورغمو د تولد له مرحلې نه عبارت ده.
- **Kidding** د سیرلکو د تولد د مرحلې نه عبارت ده.

- **Lamb** د هغه پسه نه عبارت دی چي عمر یې د یو کال نه لږ وي او همدارنګه د غوښنین پسه لپاره چي ځوان وي استعمالیږي.
- **Mutton** د هغه پسه د غوښې نه عبارت ده چي عمر یې د یو کال څخه لوړ وي.
- **Chammy** د پسه او اوزي له څرمنو څخه عبارت دی.
- **Wool** د پسه د پوښ نه عبارت دی چي د ریښو په ډول د ځانګړو تولیداتو لکه جامو لپاره استعمالیږي.

دپسه او اوزي باندني غړي

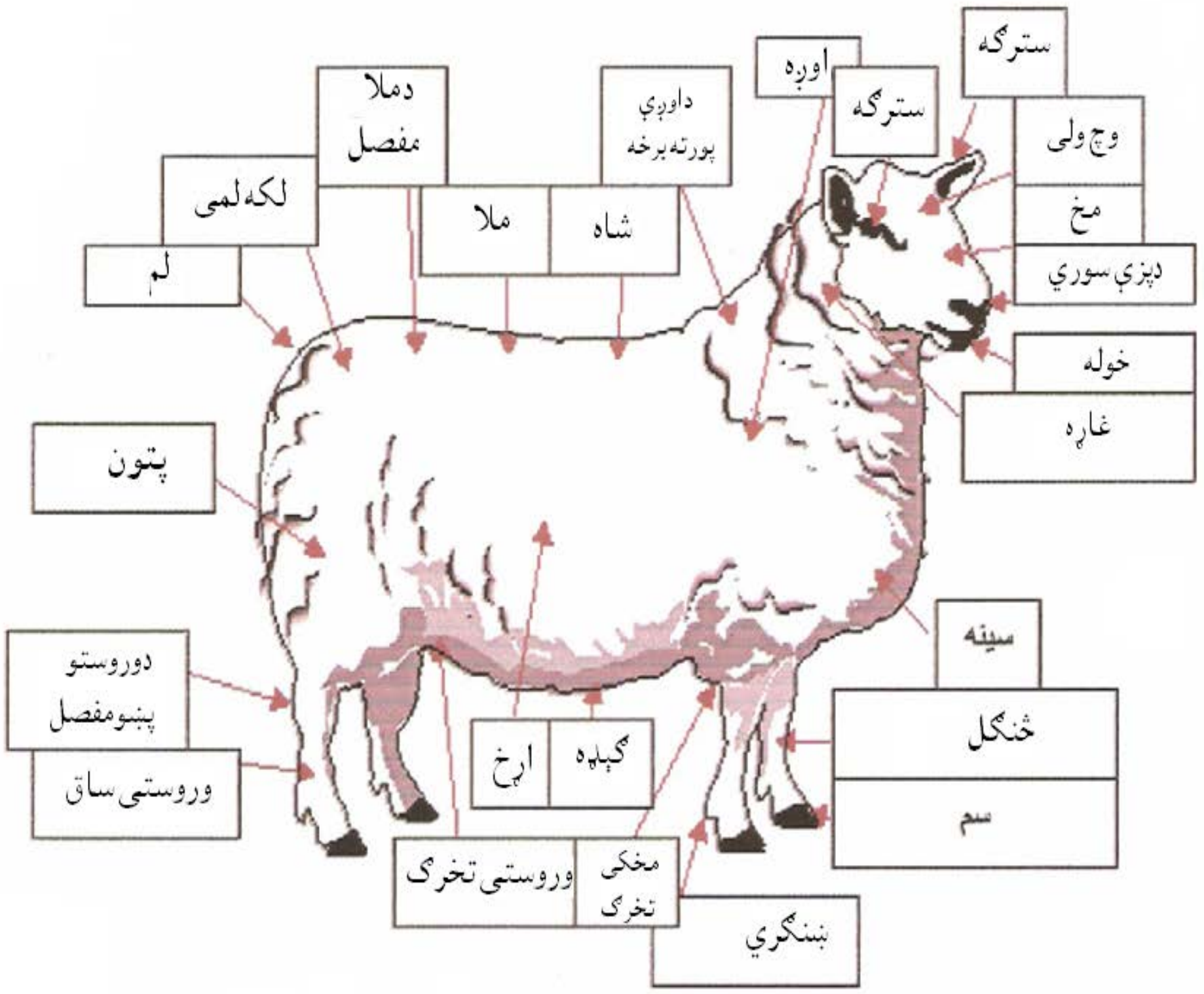

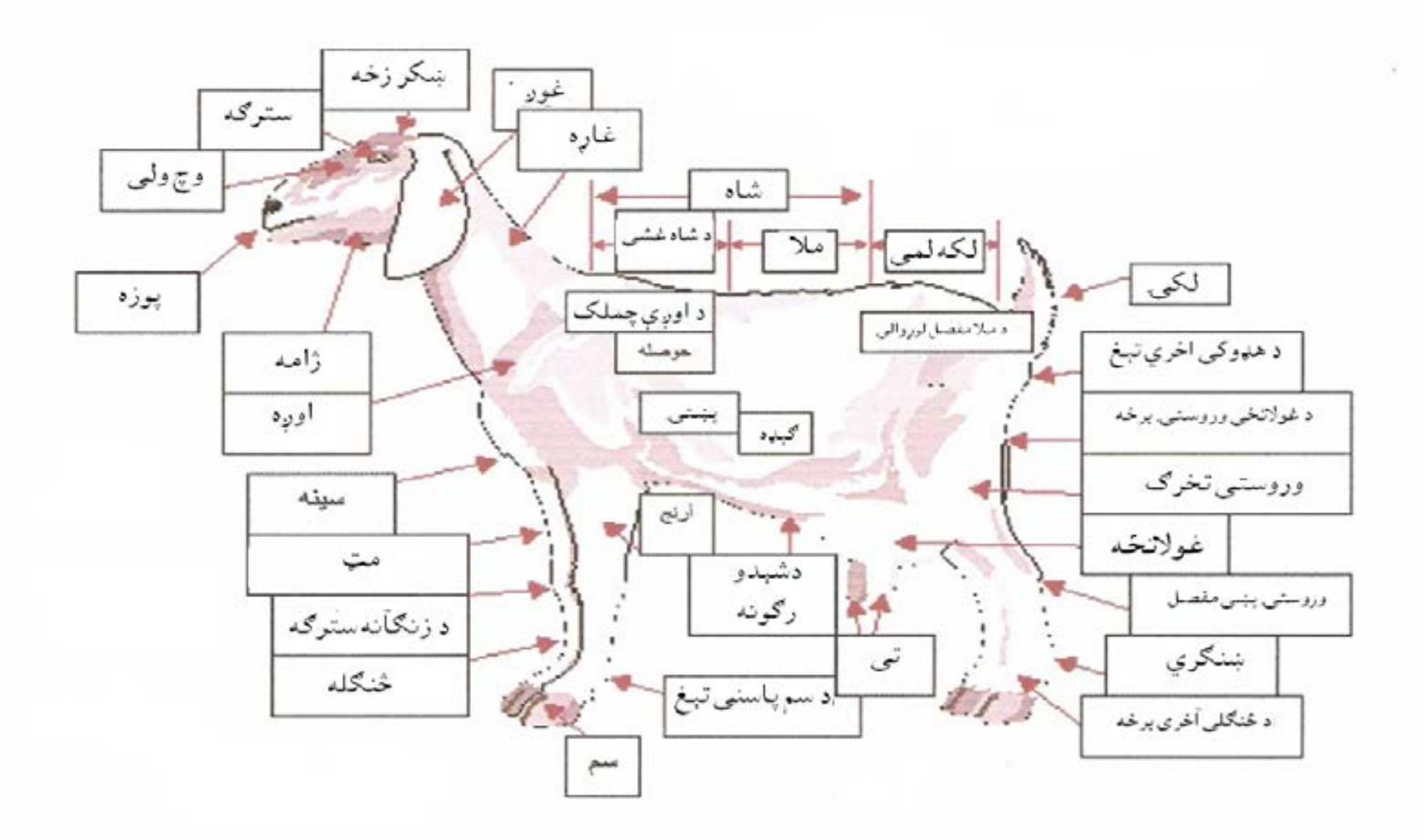

TM: B2-3

د اوزو نوعي

(Spanish) هسپانیوی

(Pygmy) لنډ قد لرونکي



(Lemancha) لیمانچه

(French Alpine) الپاین فرانسوی



دپسونو د تولېدي سيستم پنځه نوعي

په فارم کې درمې تولېدي سيستم
دسوچه نسل دپسونو رمه
څرکونکي ګروپونه
په طوبله کې تولېد
دورغمو تغذيه کول

په نړۍ کې دخامو وړيو تولېد اومصرف

په پيليون پونډ.

4.0

توليد

3.5

3.0

مصرف

2.5

1968 70 75 80 85

نوم______________________

دلابراتوار ورقه

خپل ټولګی ته یو وترنر ډاکټر یا د پسونو کوم تولېد کونکی راوبلئ.هغوي باید هغه وسیلي، او لوازم راوړي کوم چې د پسونو په تداوی یا نسل اخستنه کې استعمالیږي. لوازم او وسېلي په مېز باندې کیږدئ. زده کونکي باید کوښښ وکړي ، سعیه وکړي چې هر یو نوعه له دې سامانونو څخه کومه نوعه ده او د کومې موخې لپاره په کار وړل کیږي.

د لوازمو استعمال	دلوازمو نوم
______________________	1. ____________________
______________________	2. ____________________
______________________	3. ____________________
______________________	4. ____________________
______________________	5. ____________________
______________________	6. ____________________
______________________	7. ____________________
______________________	8. ____________________
______________________	9. ____________________
______________________	10. ____________________